I - Baupläne 06

Welches Bauwerk passt zur Materialliste?

1	1	2	1	0
2	0	0	2	2
3	2	0	0	2
4	2	1	0	1
5	2	1	1	0
6	2	0	2	0
7	2	2	0	0
8	1	1	2	0
9	1	0	1	2
10	0	2	2	0
11	1	0	2	1
12	2	0	1	1

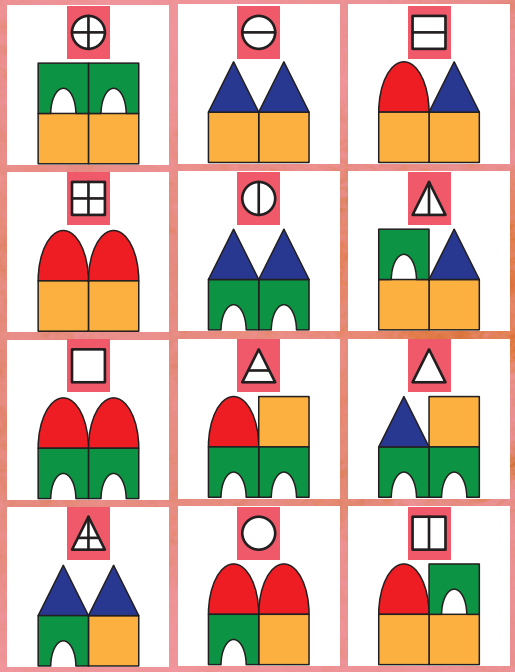

1	2	3	4	5	6	7	8	9	10	11	12

II - Drehungen 04

Wie sieht der Buchstabe nach einer Links- oder Rechtsdrehung aus?

	R	G	F	Q	K	E
↷	3	5	10	7	11	2
↶	8	12	1	4	9	6

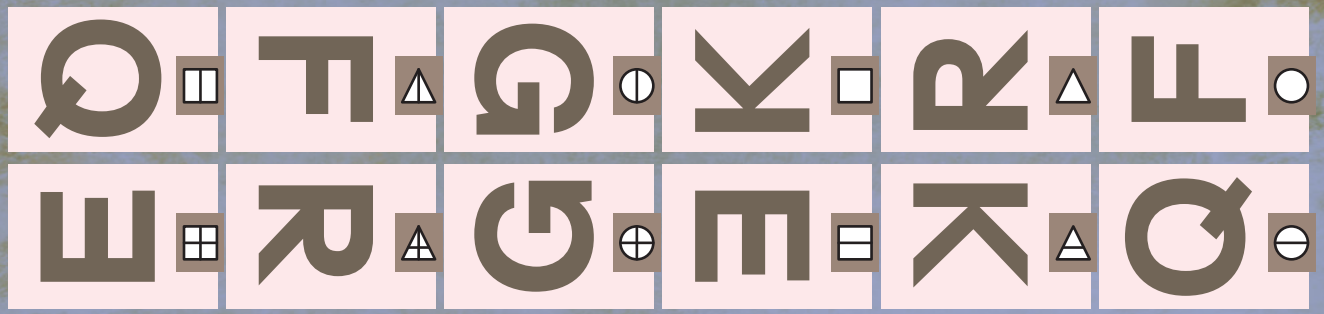

1	2	3	4	5	6	7	8	9	10	11	12
○											

III - Figur- Grundwahrnehmung 01

Fülle die Kugelmenge richtig auf!

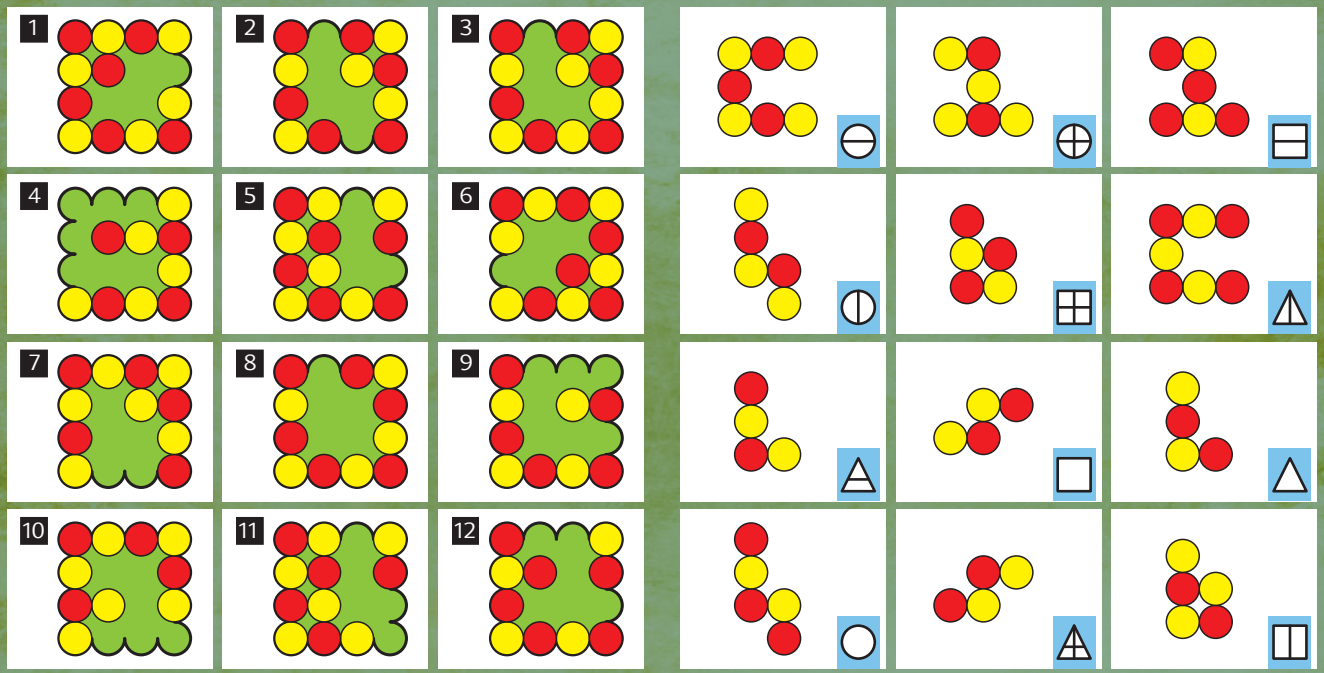

1	2	3	4	5	6	7	8	9	10	11	12
□											

V - Geobretter 03

Welches Dreieck hat die gleiche Fläche?

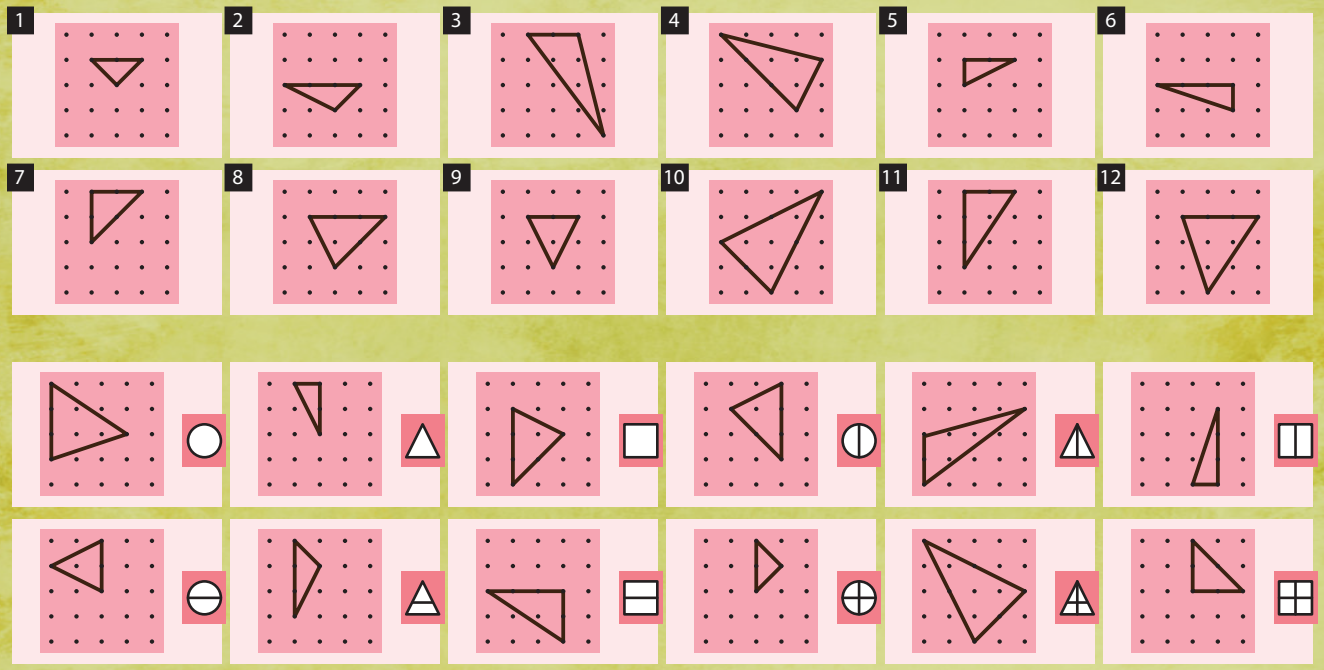

1	2	3	4	5	6	7	8	9	10	11	12
⊕											

VI - Spiegelungen 07

Finde die richtige Zuordnung!

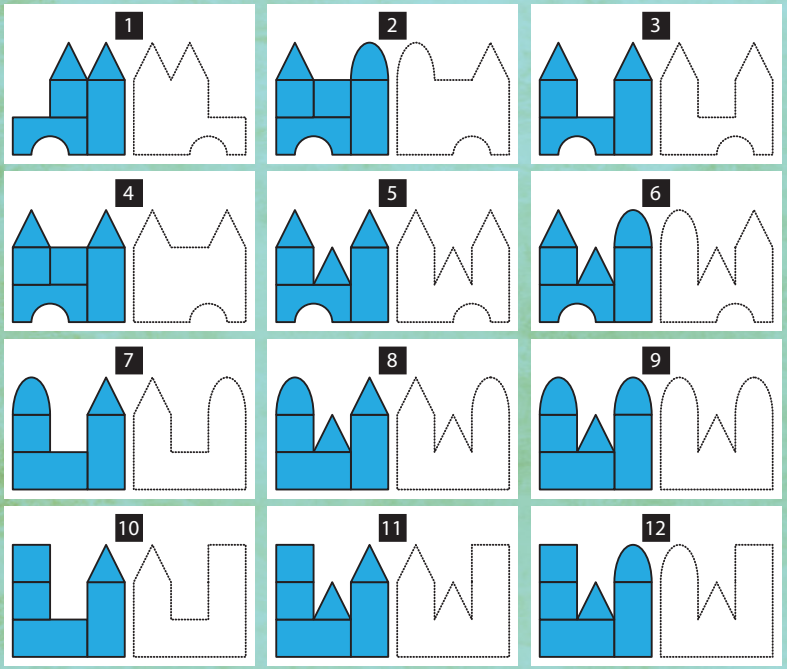

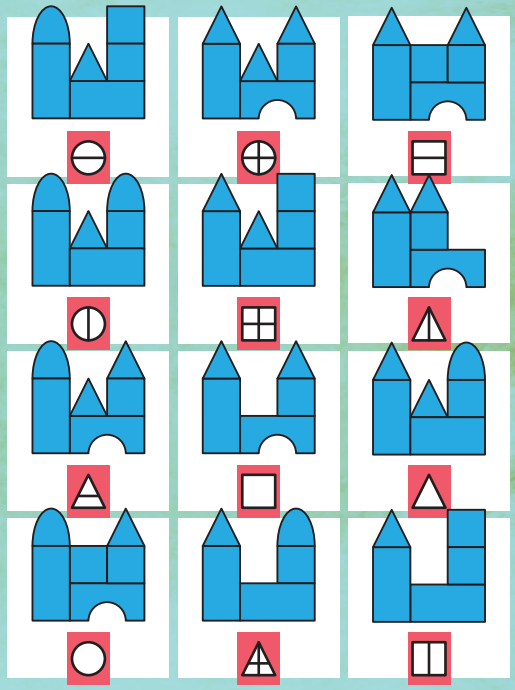

1	2	3	4	5	6	7	8	9	10	11	12
△											

VII - Ansichten 03

Wie sehen die Quader von vorne aus?

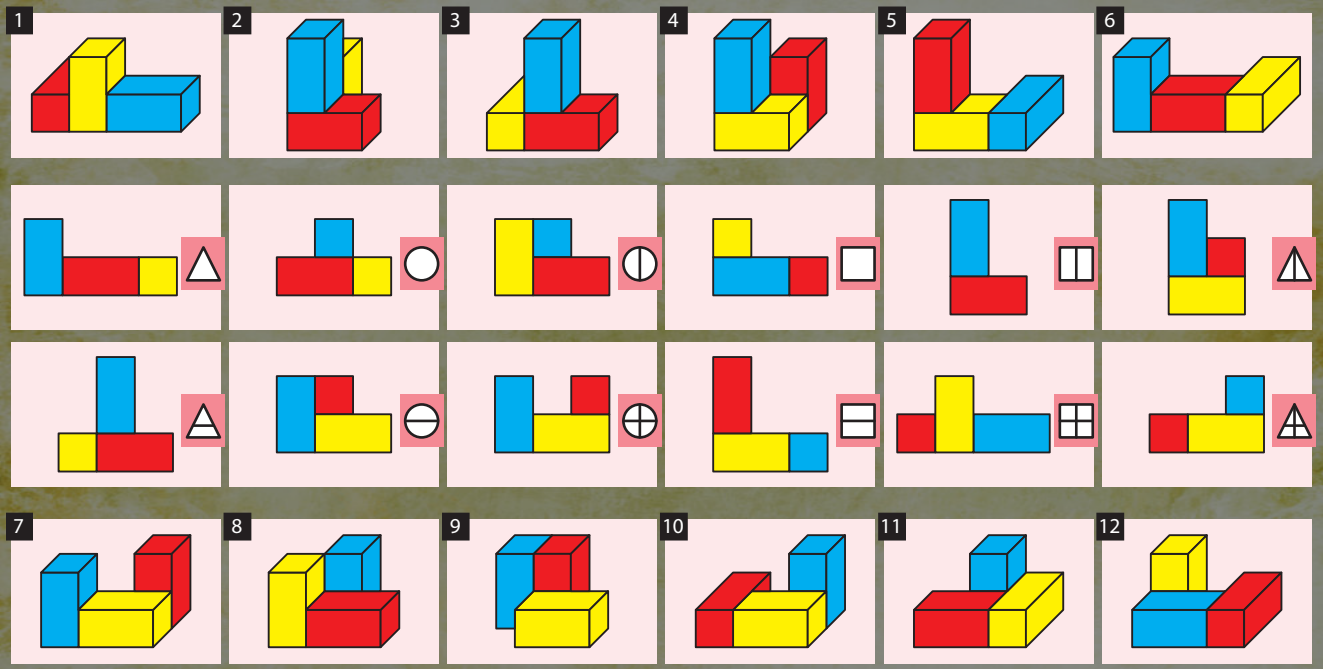

VIII - Lies und schau genau 19

Suche den zugehörigen Ball!

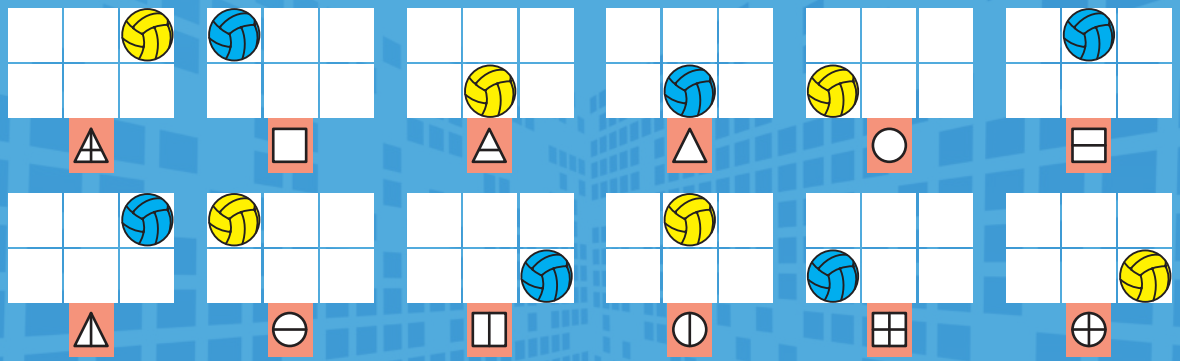

1. ein gelber Ball unten in der Mitte
2. ein blauer Ball unten rechts
3. ein gelber Ball oben links
4. ein blauer Ball oben rechts
5. ein gelber Ball unten rechts
6. ein blauer Ball oben links
7. ein gelber Ball oben rechts
8. ein blauer Ball oben in der Mitte
9. ein gelber Ball unten links
10. ein blauer Ball unten in der Mitte
11. ein gelber Ball oben in der Mitte
12. ein blauer Ball unten links

1	2	3	4	5	6	7	8	9	10	11	12
△											

VIII - Lies und schau genau 23

Welche Abbildung passt zum Textbaustein?

1 ein gelber Apfel rechts neben einem roten Stuhl	2 ein grüner Apfel auf einem blauen Stuhl	3 ein roter Apfel links neben einem braunen Stuhl	4 ein gelber Apfel auf einem roten Stuhl	5 ein grüner Apfel rechts neben einem blauen Stuhl	6 ein roter Apfel auf einem braunen Stuhl
7 ein roter Apfel unter einem braunen Stuhl	8 ein gelber Apfel links neben einem roten Stuhl	9 ein grüner Apfel unter einem blauen Stuhl	10 ein roter Apfel rechts neben einem braunen Stuhl	11 ein gelber Apfel unter einem roten Stuhl	12 ein grüner Apfel links neben einem blauen Stuhl



1	2	3	4	5	6	7	8	9	10	11	12
⊕											

Lösung

I - Baupläne 06

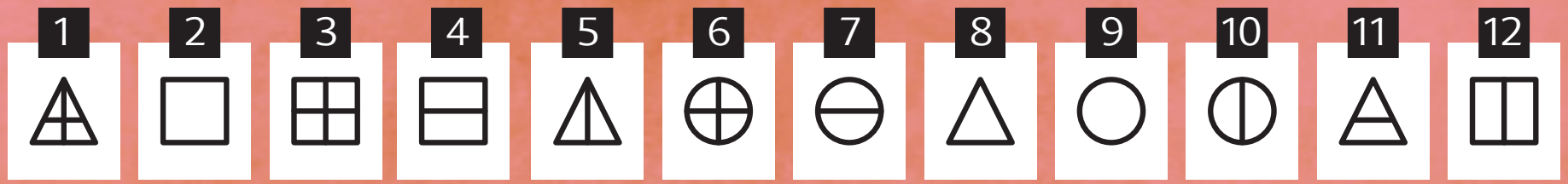

Lösung
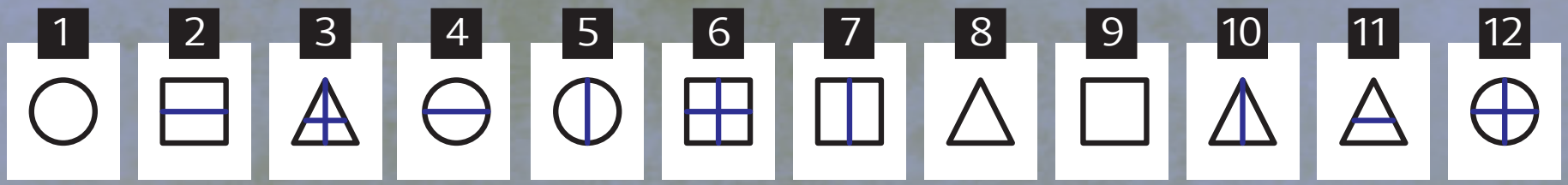
II - Drehungen 04